МАТЕРИАЛЫ

для сайта по географии 5 класс (углубленное изучение географии)

Учитель: Ю. В. Остроухова

ТЕМА	Знать	Уметь
Гидросфера – водная оболочка Земли	Гидросфера и её части. Вещественный состав гидросферы. Круговорот воды в природе	Анализировать информацию для объяснения географических явлений
Мировой океан – главная часть гидросферы	Мировой океан. Береговая линия. Части Мирового океана. Суша в океане. Номенклатура.	Приводить примеры частей мирового океана при атласе.
Реки	Разнообразие вод суши. Река, речная система, бассейн реки, водораздел. Горные и равнинные реки. Пороги и водопады. Строение рельефа русла реки. Номенклатура.	Анализировать информацию для объяснения географических явлений
Озера. Подземные воды. Ледники.	Что такое озеро? Озёрная вода. Строение ледников. Горные и покровные ледники. Айсберги. Строение подземных вод. Номенклатура.	Анализировать информацию для объяснения географических явлений

Примерные вопросы (задания)

Гидросфера – водная оболочка Земли

1. В отличие от большого круговорота в малом круговороте воды не принимают участие

1) Мировой океан
2) водяной пар атмосферы
3) реки

2. Выберите верное утверждение
1) осадки выпадают всегда в жидком виде
2) процесс Мирового круговорота воды охватывает все оболочки Земли
3) Мировой океан имеет четкие границы

3.Накопитель тепла и основной источник влаги на Земле
A) впадины
B) мировой океан
C) горы
D) возвышенности
E) равнины

4. Большую часть гидросферы занимают:
A) соленые воды
B) пресные поверхностные воды
C) воды в ледниках
Д) пресные подземные воды
E) воды в айсбергах

Мировой океан – главная часть гидросферы

1. К Мировому океану относятся:
а) моря и заливы б) заливы и озера в) озера и моря г) проливы и реки

2. По площади территории Атлантический океан

1) уступает только Тихому океану
2) превосходит Тихий, Индийский и Северный Ледовитый
3) превосходит Северный Ледовитый, но уступает Тихому и Индийскому
4) уступает только Индийскому

3. К водам суши не относится
1) река Иртыш
2) Ладожское озеро
3) пролив Ла-Манш
4) горные ледники Кавказа

4. Часть океана, отличающаяся от него свойствами воды, течением, живыми организмами
А) море
В) водохранилище
С) река
Д) океан
Е) озеро

5. Самый большой по площади остров земного шара
А) Мадагаскар
В) Куба
С) Гренландия
D) Калимантан
Е) Шри-Ланка

6. Установите соответствие «море-океан, к которому оно относится»

Море	Океан
1) Красное	А) Тихий
2) Карибское	Б) Северный Ледовитый
3) Баренцево	В) Индийский
4) Японское	Г) Атлантический
	Д) Южный

7. Установите соответствие «залив -океан», к которому оно относится

Море	Океан
1) Большой Австралийский	А) Тихий
2) Мексиканский	Б) Северный Ледовитый
3) Гудзонов	В) Атлантический
4) Аляска	Г) Индийский
	Д) Южный

8. Пролив, соединяющий Северный Ледовитый и Тихий океаны

1) Гибралтарский
2) Магелланов
3) Берингов
4) Ла-Манш

9. Какие волны возникают при землетрясении в океане?

а) приливные
б) ветровые
в) прибой
г) цунами

10. Самым соленым морем Мирового океана является

1) Черное
2) Южно-Китайское
3) Красное
4) Баренцево

11. Участки суши, глубоко вдающиеся в океан

а) полуострова
б) острова
в) материки
г) архипелаги

12. Соленость воды в океане зависит от

а) количество атмосферных осадков
б) величины испарения
в) количества впадающих рек
г) все выше перечисленное

13. В чем измеряют соленость морской воды?

а) в процентах
б) в промилле
в) в градусах
г) в граммах

14. Самый маленький океан
A) Атлантический
B) Индийский
C) Северный Ледовитый океан
D) Тихий

15. Крупнейший полуостров материка Евразия и всего земного шара является полуостров
1) Лабрадор
2) Скандинавский
3) Таймыр
4) Аравийский

16. На карте цифрой 1 отмечен:
а) полуостров Лабрадор
б) Мексиканский залив
в) полуостров Калифорния
г) Гудзонов залив

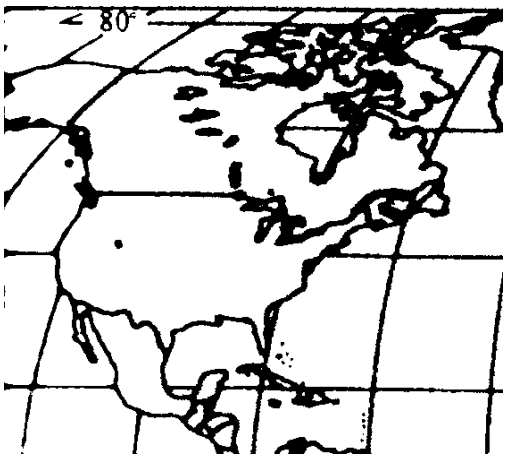

Реки

1. Место, где река впадает в море, озеро, другую реку

1) устье
2) русло
3) приток
4) исток

2. Место, откуда река впадает берет свое начало

1) устье
2) русло
3) приток
4) исток

3. Граница между бассейнами рек

1) русло
2) речная система
3) водораздел
4) устье

4. Главная река со всеми притоками

1) русло
2) речная система
3) водораздел
4) устье

5. Углубление, в котором течёт река

1) русло
2) речная система
3) водораздел
4) устье

6. Выберите верное утверждение:

1) речная система – это площадь, с которой река собирает воду
2) течение воды в реке направлено от истока к устью
3) реки протекают только на равнинах
4) в пустынях никогда не бывает рек

7. Основные источники питания рек

1) дождевое и снеговое
2) ледниковое и подземное
3) смешанное
4) все вышеперечисленные

8. Самая длинная река Земли

1) Амазонка
2) Миссури
3) Нил
4) Волга

9. Крупнейшая река мира по площади бассейна

1) Амазонка
2) Миссисипи
3) Парана
4) Конго

10. Правым притоком Волги является река

1) Ока
2) Кама
3) Самара
4) Ветлуга

11. Самая длинная река в России

1) Амур
2) Лена
3) Волга
4) Обь

12. Искусственный водоем
A) Канал
B) Река
C) Озеро
D) Пролив
E) Болото

13. Место, где начинается река, называют
A) паводком
B) меженью
C) руслом
D) истоком
E) устьем

14. Отношение падения реки к ее длине называется
A) падение реки
B) режимом реки
C) годовым стоком
Д) уклоном реки
E) поперечным течением

15. Участок земной поверхности, с которого вся вода стекает в одну реку, называется
а) водораздел б) речная система в) бассейн реки г) долина реки

16. Долины равнинных рек по сравнению с горными имеют

а) большую ширину и глубину;

б) большую ширину и меньшую глубину;

в) меньшую ширину и большую глубину;

г) меньшую глубину и ширину.

17. Подбери пару: термин - определение по теме «Воды суши»

1.Русло	а) место начала реки
2 Устье	б) место впадения реки в другую реку, море
3 Водораздел	в) река со всеми притоками
4 Исток	г) углубление, где реки текут постоянно
5 Речной бассейн	д) граница двух речных бассейнов
6 Речная система	е) площадь водосбора реки с притоками

18. Установите соответствие «залив -океан», к которому оно относится

Вид реки по местонахождению	Характеристика
1. Горная	1. Не образуют значительных извилин
2. Равнинная	2. Текут спокойно, плавно.
	3. Удобны для судоходства.
	4. Широкая долина.
	5. Неудобны для судоходства.
	6. Несутся с большой скоростью, бурлят
	7. Узкая долина.
	8. Образуют извилины, обходя препятствия
	9. 
	10. 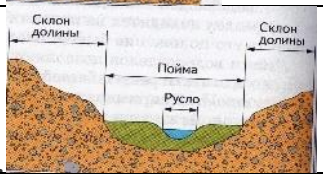

19. Место впадения реки в другой водоем

а) исток б) устье в) приток г) водораздел

20. Горная река

а) Волга б) Объ в) Амазонка г) Терек

21. Линия, разделяющая соседние речные бассейны:

а) водораздел

б) речная система

в) бассейн реки

г) речная долина

22. Самый высокий водопад мира

а) Анхель

б) Виктория

в) Ниагара

г) Игуасу

23 Установите соответствие между описанием форма рельефа русла реки и его названием

Название формы рельефа русла реки	Описание формы рельефа русла реки
1. омут	А) Линия, соединяющая участки реки с максимальными глубинами.
2. перекат	Б) относительно ровная поверхность берега реки, образованная отложением наносов реки, с отсутствием растительности
3. осередок	В) наиболее глубокого места в озере или русле реки
4. пляж	Г) мелководный участок русла реки.
5. плёс	Д) остров или мель, образованные аллювием в русле реки и вытянутые вдоль него.
6. фарватор	Е) глубокий участок русла реки, расположенный между перекатами

24. Наука, изучающая поверхностные воды суши

1) океанология
2) гидрология
3) гляциология
4) гидрохимия

Озера. Подземные воды. Ледники.

1. Обширное покровное оледенение характерно для

1) Гималаев, Памира и Тянь-Шаня
2) Гренландии и Антарктиды
3) Скандинавского полуострова
4) Исландии

2. Обширное горное оледенение характерно для

1) Гималаев, Памира и Тянь-Шаня
2) Исландии
3) Скандинавского полуострова
4) Антарктиды и Гренландии

3. Выберите верное утверждение:

1) озеро-это природный водоём в углублении поверхности суши
2) вода в озёрах бывает только пресная
3) озёра бывают только одной формы
4) в горах не бывает озёр

4. Самое крупное озеро мира по площади

1) Байкал
2) Виктория
3) Верхнее
4) Каспийское

5. Самое глубокое озеро Земли

1) Ладожское
2) Виктория
3) Каспийское
4) Байкал

6. Выберите верное утверждение:

1) на озёрах не бывает волн
2) покровные ледники находятся в горах
3) для создания водохранилища на реке строят плотину
4) болота питаются только атмосферными осадками

7. Как называются воды, содержащиеся в земной коре?

а) грунтовые
б) подземные
в) ледниковые
г) межпластовые

8. Какое озеро самое большое по площади на Земле?

а) Балтийское
б) Аральское
в) Байкал
г) Каспийское

9. Какой остров на Земле почти полностью покрыт ледником?

а) Огненная Земля
б) Мадагаскар
в) Гренландия
г) Тасмания

10. Воды, заключенные в земной коре, называются
А) почвенными
В) подземными
С) литосферными
Д) наземные
Е) солёными

11. У экватора по сравнению с полюсами снеговая линия расположена:

а) ниже б) выше в) на такой же высоте

12. Грунтовые воды расположены:

а) на верхнем водоупоре б) между двумя водоупорами в) на нижнем водоупоре.