Материалы
для подготовки к тестированию по истории П-5
10.2 класс профиль

Учитель: Ткач А. М.

Тема	Ученик научится	Ученик получит возможность
Полицентризм на Руси.	Объяснять причины возникновения полицентризма на Руси, особенности положения отдельных земель и княжеств, систему политического устройства земель и княжеств	Сравнивать методы борьбы за власть и политику князей различных русских земель; на основе анализа мнения историков о роли и значении периода полицентризма в истории государственности Руси, высказывать своё мнение об этих процессах.
Культура домонгольской Руси (X – начало XIIIв).	Характеризовать исторические условия развития древнерусской культуры, отличительные особенности культуры Древней Руси; основные жанры литературного наследия и черты русской архитектуры данного периода, быт жителей Руси.	Давать описание памятников культуры на основе текста и иллюстративного материала учебника, фрагментов исторических источников; опровергать или соглашаться с мнением историков о существовании единой древнерусской народности в условиях обособления отдельных княжеств и земель
Русские земли в эпоху иноземных завоеваний XIII в.	Объяснять в чём состоит особенность исторического развития и образа жизни кочевых народов Центральной Азии, причины успешности завоевательных походов монгольских ханов; в чём состоит значение успешных сражений Северо – Западной Руси с крестоносцами.	Выделять наиболее важные причины успешности завоевательных походов монгол, определять причины поражения Руси в борьбе с монгольскими завоеваниями.
Русские земли под игом Золотой Орды	Объяснять в чём проявилась система зависимости Руси от ханов Золотой Орды; причины освобождения русского православного духовенства; последствия монгольского нашествия и ига.	Сравнивать политику Александра Невского и Даниила Галицкого в отношении Орды; характеризовать политику Александра Невского в отношении орды и Ордена; обосновывать свою точку зрения по поводу канонизации Александра Невского.

Примерные задания:

Хронология

Расположите в хронологической последовательности исторические события. Запишите цифры, которыми обозначены исторические события в правильной последовательности.

1) Ледовое побоище
2) Куликовская битва
3) Начало арабских завоеваний

Расположите в хронологической последовательности исторические события. Запишите цифры, которыми обозначены исторические события в правильной последовательности.

1) Съезд князей в Любече
2) Призвание варягов
3) Первый созыв английского парламента

Расположите в хронологической последовательности исторические события. Запишите цифры, которыми обозначены исторические события в правильной последовательности.

1) Невская битва
2) Походы Олега на Царьград
3) Нормандское завоевание Англии

Расположите в хронологической последовательности исторические события. Запишите цифры, которыми обозначены исторические события в правильной последовательности.

1) Убийство Игоря древлянами
2) Основание Новгорода
3) Образование империи Карла Великого

Расположите в хронологической последовательности исторические события. Запишите цифры, которыми обозначены исторические события в правильной последовательности.

1) Куликовская битва
2) Битва на реке Калке
3) Первый крестовый поход

Расположите в хронологической последовательности исторические события. Запишите цифры, которыми обозначены исторические события в правильной последовательности.

1) Основание Киева
2) Первое упоминание о Москве в Летописи
3) Падение Западной Римской империи

Расположите в хронологической последовательности исторические события. Запишите цифры, которыми обозначены исторические события в правильной последовательности.

1) Реформы княгини Ольги
2) Реформы Елены Глинской
3) Распад империи Карла Великого

Расположите в хронологической последовательности исторические события. Запишите цифры, которыми обозначены исторические события, в правильной последовательности в таблицу.

1) Ледовое побоище
2) Крещение Руси
3) Грюнвальдская битва

Расположите в хронологической последовательности исторические события. Запишите цифры, которыми обозначены исторические события, в правильной последовательности в таблицу.

1) объединение Новгорода и Киева под властью князя Олега
2) начало крестовых походов
3) Ледовое побоище

Расположите в хронологической последовательности исторические события. Запишите цифры, которыми обозначены исторические события, в правильной последовательности в таблицу.

1) Невская битва
2) первый созыв английского парламента
3) битва на реке Калке

Расположите в хронологической последовательности исторические события. Запишите цифры, которыми обозначены исторические события, в правильной последовательности в таблицу.

1) битва на реке Калке
2) убийство князя Андрея Боголюбского
3) битва на Косовом поле

Расположите в хронологической последовательности исторические события. Запишите цифры, которыми обозначены исторические события, в правильной последовательности в таблицу.

1) первый крестовый поход
2) разгром печенегов под Киевом
3) битва на реке Сить

Расположите в хронологической последовательности исторические события. Запишите цифры, которыми обозначены исторические события, в правильной последовательности в таблицу.

1) битва на реке Шелони
2) начало Столетней войны
3) поход Тохтамыша на Москву

Расположите в хронологической последовательности исторические события. Запишите цифры, которыми обозначены исторические события, в правильной последовательности в таблицу.

1) Падение Византии
2) Битва на реке Сить
3) Грюнвальдская битва

Расположите в хронологической последовательности исторические события. Запишите цифры, которыми обозначены исторические события, в правильной последовательности в таблицу.

1) Невская битва
2) битва на реке Калке
3) Столетняя война

Расположите в хронологической последовательности исторические события. Запишите цифры, которыми обозначены исторические события, в правильной последовательности в таблицу.

1) начало Столетней войны
2) убийство Андрея Боголюбского
3) смерть Ярослава Мудрого

Расположите в хронологической последовательности исторические события. Запишите цифры, которыми обозначены исторические события, в правильной последовательности в таблицу.

1) битва на реке Калке
2) убийство князя Андрея Боголюбского
3) война алой и белой роз

Соответствие

Установите соответствие между именами монгольских полководцев и событиями, в которых они принимали участие: к каждому элементу первого столбца подберите соответствующий элемент из второго столбца.

МОНГОЛЬСКИЕ ПОЛКОВОДЦЫ	СОБЫТИЯ
А) Батый	1) Куликовская битва
Б) Мамай	2) битва на реке Калке
В) Ахмат	3) осада Козельска
	4) стояние на реке Угре

Выбор понятий

Ниже приведён перечень терминов. Все они, за исключением двух, относятся к периоду Древнерусского государства.

1) Смерд, 2) помещик, 3) рядович, 4) пожилое, 5) боярин, 6) закуп.

Найдите и запишите порядковые номера терминов, относящихся к другому историческому периоду.

Ниже приведён перечень терминов. Все они, за исключением двух, относятся к событиям, явлениям, происходившим во второй половине XII—XV в.

1) Дворяне
2) стрельцы
3) поместье
4) пожилое
5) старообрядцы
6) местничество

Найдите и запишите порядковые номера терминов, появление которых относится к другому историческому периоду.
Ниже приведён список терминов. Все они, за исключением двух, относятся к событиям и явлениям, происходившим в период существования Древнерусского государства.

1) митрополит
2) вира
3) ярлык
4) старообрядцы
5) подсечное земледелие
6) полюдье

Найдите и запишите порядковые номера терминов, относящихся к другому историческому периоду.
Ниже приведён список разных групп населения. Все эти группы, за исключением двух, существовали в Древнерусском государстве.

1) бояре
2) закупы
3) рядовичи
4) баскаки
5) монахи
6) казаки

Найдите и запишите порядковые номера групп населения, относящихся к другому историческому периоду.

Понятия

Напишите пропущенное понятие (термин).

Часть древнерусского города, где жили торговцы и ремесленники, называлась _____.
Напишите в именительном падеже пропущенное понятие (термин).

Ханские чиновники, собиравшие с русских земель дань в XIII — начале XIV вв., назывались _____.

Установите соответствие между понятиями, терминами и их определениями. К каждой позиции первого столбца подберите соответствующую позицию второго. Запишите в таблицу выбранные цифры под соответствующими буквами.

ПОНЯТИЯ	ОПРЕДЕЛЕНИЯ
А) вира	1) доля члена княжеского рода
Б) полюдье	2) штраф за совершенное преступление
В) удел	3) часть дани и оброка, отдаваемая церкви
Г) вече	4) объезд князем с дружиной подвластных земель для сбора дани
	5) народное собрание

6) точный размер дани

Установите соответствие между терминами и их определениями: к каждой позиции первого столбца подберите соответствующую позицию из второго столбца.

ТЕРМИНЫ	ОПРЕДЕЛЕНИЯ
А) удел Б) поместье В) вотчина Г) вече	1) народное собрание 2) земельное владение при условии несения службы 3) административно-территориальная единица Московской Руси 4) земельное владение, которое безусловно передавалось по наследству 5) территория, выделенная во владение одному из младших членов княжеского рода 6) сумма денег выплачиваемая крестьянином в случае ухода от помещика

Установите соответствие между фрагментами исторических источников и их краткими характеристиками: к каждому фрагменту, обозначенному буквой, подберите по две соответствующие характеристики, обозначенные цифрами.

ФРАГМЕНТЫ ИСТОЧНИКОВ

А) «…Был совет всех князей в городе Киеве, и решили на совете так: «Лучше нам встретить их на чужой земле, чем на своей». На этом совете были Мстислав Романович Киевский, Мстислав Козельский и Черниговский и Мстислав Мстиславич Галицкий — они были старейшими князьями Русской земли. Великого же князя Юрия Суздальского на том совете не было. А младшие князья были Даниил Романович, Михаил Всеволодич, Всеволод Мстиславич Киевский и иных князей много. <…> Оттуда они шли восемь дней до реки Калки. Встретили их татарские сторожевые отряды. Когда сразились сторожевые страды, был убит Иван Дмитриевич и еще двое с ним. Татары отъехали; около самой реки Калки встретились татары с русскими и половецкими полками. Мстислав Мстиславич повелел сначала перейти реку Калку Даниилу с полком и другим полкам с ними, а сам после них переехал; сам он ехал в сторожевом отряде. Когда он увидел татарские полки, то приехал сказать: "Вооружайтесь!" Мстислав Романович и Другой Мстислав сидели и ничего не знали: Мстислав им не сказал о происходящем из-за зависти, потому что между ними была большая вражда… Сошлись полки вместе. Даниил выехал вперед, и Семен Олюевич и Василько Гаврилович ударили в полки татарские, и Василько был ранен. А сам Даниил, будучи ранен в грудь, по молодости и храбрости не почувствовал ран на теле своем. Ему было восемнадцать лет, и он был силен <…> За грехи наши побеждены были русские полки…»

Б) «В год 6745 (от Сотворения Мира)….<…> Пришел на Русскую землю безбожный царь Батый со множеством воинов татарских и стал на реке на Воронеже близ земли Рязанской. И прислал послов непутевых на Рязань к великому князю Юрию Ингваревичу (Игоревичу) Рязанскому, требуя у него десятой доли во всем: во князьях, и во всяких людях, и в остальном. И услышал великий князь Юрий Ингваревич Рязанский о нашествии безбожного царя Батыя, и тотчас послал в город Владимир к благоверному великому князю Георгию Всеволодовичу Владимирскому, прося у него помощи против безбожного царя Батыя или чтобы сам на него пошел. Князь великий Георгий Всеволодович Владимирский и сам не пошел, и

помощи не послал, задумав один сразиться с Батыем. И услышал великий князь Юрий Ингваревич Рязанский, что нет ему помощи от великого князя Георгия Всеволодовича Владимирского, и тотчас послал за братьями своими: за князем Давидом Ингваревичем Муромским, и за князем Глебом Ингваревичем Коломенским, и за князем Олегом Красным, и за Всеволодом Пронским, и за другими князьями. И стали совет держать, как утолить нечестивца дарами. И послал сына своего князя Федора Юрьевича Рязанского к безбожному царю Батыю с дарами и мольбами великими, чтобы не ходил войной на Рязанскую землю. И пришел князь Федор Юрьевич на реку на Воронеж к царю Батыю, и принес ему дары, и молил царя, чтоб не воевал Рязанской земли. Безбожный же, лживый и немилосердный царь Батый дары принял и во лжи своей притворно обещал не ходить войной на Рязанскую землю. Но хвалился-грозился повоевать всю Русскую землю. И стал просить у князей рязанских дочерей и сестер к себе на ложе. И некто из вельмож рязанских по зависти донес безбожному царю Батыю, что есть у князя Федора Юрьевича Рязанского княгиня из царского рода и что всех прекраснее она красотой телесною. Царь Батый лукав был и немилостив в неверии своем, распалился в похоти своей и сказал князю Федору Юрьевичу: «Дай мне, княже, изведать красоту жены твоей». Благоверный же князь Федор Юрьевич Рязанский посмеялся и ответил царю: «Не годится нам, христианам, водить к тебе, нечестивому царю, жен своих на блуд. Когда нас одолеешь, тогда и женами нашими владеть будешь». Безбожный царь Батый разъярился и оскорбился и тотчас повелел убить благоверного князя Федора Юрьевича, а тело его велся бросить на растерзание зверям и птицам, и других князей и воинов лучших поубивал…».

ХАРАКТЕРИСТИКИ

1) Противником русских в этом сражении были шведы.
2) Участие в битве русских дружин объясняется просьбой половецких князей поддержать их в борьбе с агрессией монголо-татар.
3) Первыми на пути полчищ Батыя стала Рязань.
4) Оборону Рязани возглавил Александр Невский.
5) Битва на реке Калке состоялась в 1223 г.
6) Войска Батыя вторглись в русские земли зимой 1237 г.

Фрагмент А Фрагмент Б

Установите соответствие между фрагментами исторических источников и их краткими характеристиками: к каждому фрагменту, обозначенному буквой, подберите по две соответствующие характеристики, обозначенные цифрами.

ФРАГМЕНТЫ ИСТОЧНИКОВ

А) «В первые же годы своего правления князь добился того, что в Москву из Владимира была переведена митрополичья кафедра. Он сумел приобрести расположение митрополита Петра, так что этот святитель жил в Москве больше, чем в других местах. Пётр умер и был погребен в ней. Гроб святого мужа был для Москвы так же драгоценен, как и пребывание живого святителя: выбор Петра казался внушением Божьим. Другие князья хорошо видели важные последствия этого явления и сердились; но поправить дело в свою пользу уже не могли. Во все продолжение своего правления князь ловко пользовался обстоятельствами, чтобы, с одной стороны, увеличить свои владения, с другой — оказывать влияние на князей в прочих русских землях. В этом помогала ему более всего начавшаяся вражда между Тверью и Ордой. Княживший в Твери князь Александр Михайлович принял участие в народном восстании, в котором тверичи убили Чол-хана и перебили всю его свиту. Узбек очень

рассердился, узнав об участи Чол-хана, и, по некоторым известиям, послал за московским князем, но, по другим известиям, московский князь поехал в Орду сам, торопясь воспользоваться тверским происшествием. Узбек дал ему ярлык на великое княжение и 50 000 войска. Присоединив к себе еще князя суздальского, московский князь пошел в Тверскую волость; татары пожгли города и села, людей повели в плен и, по выражению летописца, положили пусту всю землю Русскую. Спаслись лишь Москва да Новгород, который дал татарским воеводам 2000 гривен серебра и множество даров. Александр бежал в Новгород, потом в Псков, но и оттуда его вынудили уехать в Литву. Обстоятельства продолжали благоприятствовать Москве…..»

Б) «…Князь же великий, распределив полки, повелел им через Оку-реку переправляться и при казал каждому полку и воеводам: "Если же кто пойдет по Рязанской земле, — не коснитесь ни единого волоса!" И, взяв благословение от архиепископа коломенского, князь великий перешел реку Оку со всеми силами и отправил в поле третью заставу, лучших своих витязей, чтобы они сошлись со сторожей татарской в степи….<…> Князь же Олег Рязанский услышал, что князь великий соединился со многими силами и следует навстречу безбожному царю Мамаю да к тому же вооружен твердо своею верою, которую на бога-вседержителя, всевышнего творца, со всею надеждой возлагает. И начал остерегаться Олег Рязанский и с места на место переходить с единомышленниками своими, так говоря: "Вот если бы нам можно было послать весть об этой напасти к многоразумному Ольгерду Литовскому, узнать, что он об этом думает, да нельзя: перекрыли нам путь. Думал я по старинке, что не следует русским князьям на восточного царя подниматься, а теперь как все это понять? И откуда князю помощь такая пришла<…>, что смог против нас трех подняться?" Князь же Ольгерд Литовский, в согласии с прежним замыслом, собрал литовцев много и варягов, и жмуди и пошел на помощь Мамаю. И пришел к городу Одоеву, но, прослышав, что князь великий собрал великое множество воинов, — всю русь и словен, да пошел к Дону против царя Мамая, — прослышав также, что Олег испугался, — и стал тут с тех пор недвижимо, и понял тщетность своих помыслов, о союзе своем с Олегом Рязанским теперь сожалел, метался и негодовал, говоря: "Если человеку не хватает своего ума, то напрасно чужого ума ищет: никогда ведь не бывало, чтобы Литву поучала Рязань! Ныне же свел меня с ума Олег, а сам и пуще погиб ".

ХАРАКТЕРИСТИКИ

1) Речь в отрывке идет о князе московском Юрии Даниловиче.
2) рязанскому князю Олегу и литовскому князю Ольгерду не удалось принять участие в битве на стороне ордынцев
3) победа князя Дмитрия Ивановича над Мамаем окончательно избавила русские земли от необходимости выплачивать Орде дань
4) Речь идет о князе, которого прозвали «собирателем земли русской»
5) Перемещение кафедры митрополита из Владимира в Москву при Иване Калите сделало её духовной столицей Руси
6) События, описываемые в отрывке, произошли во второй половине XIV в.

Фрагмент А Фрагмент Б

Установите соответствие между фрагментами исторических источников и их краткими характеристиками: к каждому фрагменту, обозначенному буквой, подберите по две соответствующие характеристики, обозначенные цифрами.

ФРАГМЕНТЫ ИСТОЧНИКОВ

А) «И начали князья собирать воинов каждый в своей области: великий князь Мстислав Романович Киевский, внук Ростислава, и Мстислав Святославич Козельский, внук Всеволода Черниговского, и Мстислав Мстиславич Галицкий — эти старшие князья в Русской земле; а с ними и младшие князья: Даниил Романович, внук Мстислава, и князь Михаил Всеволодович Черниговский, и князь Всеволод Мстиславич, сын киевского князя, и многие другие князья. Когда все князья собрались на совет в Киеве, они послали во Владимир к великому князю Юрию Всеволодовичу за помощью; а он отправил к ним Василька Ростовского. Посоветовавшись, князья решили встретить врага на чужой земле... и, собрав всех русских воинов, выступили в поход...»
Б) «В тот год сказала дружина Игорю: «Отроки Свенельда изоделись оружием и одеждой, а мы наги. Пойдём, князь, с нами за данью, и себе добудешь, и нам». И послушал их Игорь и пошёл... за данью и прибавил к прежней дани новую, и творили насилие... мужи его. Когда же шёл он назад, — поразмыслив, сказал своей дружине: «Идите с данью домой, а я возвращусь и похожу ещё». И отпустил дружину, а сам с малой частью дружины вернулся, желая большего богатства. ...И послали к нему, говоря: «Зачем идёшь опять? Забрал уже всю дань». И не послушал их Игорь; и... убили Игоря и дружинников его...»

ХАРАКТЕРИСТИКИ

1) Данное событие произошло после Крещения Руси.
2) Современником данного события был Чингисхан.
3) Данное событие закончилось победой великого князя.
4) Противниками русских воинов во время данного события были половцы.
5) Князь, участвующий в данных событиях, дважды ходил на Византию.
6) Одним из следствий данного события было упорядочение сбора дани.

Фрагмент А Фрагмент Б

Установите соответствие между фрагментами исторических источников и их краткими характеристиками: к каждому фрагменту, обозначенному буквой, подберите по две соответствующие характеристики, обозначенные цифрами.

ФРАГМЕНТЫ ИСТОЧНИКОВ

А) «И пришли безбожные... на реку Сить против великого князя Юрия... Услышав же об этом, князь Юрий с братом своим Святославом и с племянниками своими Васильком и Всеволодом и Владимиром, и с мужами своими пошёл против них. И сошлись обе стороны, и была злая сеча, и побежали наши перед иноплеменниками; и тут убит был великий князь Юрий...»
Б) «...Пришла весть к великому князю, что царь Ахмат идет в полном сборе, со своей ордой и царевичами, с уланами и князьями, да еще в соглашении с королем Казимиром — ибо король и направил его против великого князя, желая сокрушить христианство. Князь великий пошел на Коломну и стал у Коломны, а сына своего великого князя Ивана поставил у Серпухова, а князя Андрея Васильевича Меньшого в Тарусе, а прочих князей и воевод в иных местах, а других — по берегу.
Царь Ахмат, услышав, что князь великий стоит у Оки на берегу со всеми силами, пошел к Литовской земле, обходя реку Оку и ожидая на помощь себе короля или его силы, и опытные проводники вели его к реке Угре на броды. Князь же великий сына своего, и брата, и воевод послал на Угру со всеми силами, и, придя, они стали на Угре и заняли броды и перевозы. А сам князь великий поехал из Коломны на Москву к церквам Спаса и Пречистой Богородицы и к святым чудотворцам, прося помощи и защиты православному христианству, желая обсудить и обдумать это с отцом своим митрополитом Геронтием, и со своей

матерью великой княгиней Марфой, и своим дядей Михаилом Андреевичем, и со своим духовным отцом архиепископом ростовским Вассианом, и со своими боярами — ибо все они тогда пребывали в осаде в Москве. И молили его великим молением, чтобы он крепко стоял за право-славное христианство против басурман».

ХАРАКТЕРИСТИКИ

1) данный фрагмент является отрывком из «Повести о разорении Рязани Батыем».
2) Князем, участвовавшим в описываемых событиях, был принят Судебник 1497 г.
3) В данном источнике описываются событие, произошедшее 4 марта 1238 г.
4) Описываемое событие относится к XI в.
5) Участник события - третий сын великого князя Всеволода Большое Гнездо.
6) Материал взят из «Повести о стоянии на Угре».

Фрагмент А Фрагмент Б

Установите соответствие между фрагментами исторических источников и их краткими характеристиками: к каждому фрагменту, обозначенному буквой, подберите по две соответствующие характеристики, обозначенные цифрами.

ФРАГМЕНТЫ ИСТОЧНИКОВ

А) «Убит же был Шевкал... И, услышав об этом, беззаконный царь зимой послал рать на Русскую землю — пять темников, а воевода у них Федорчук, и убили они множество людей, а иных взяли в плен; а Тверь и все тверские города предали огню. Великий же князь Александр, чтобы не терпеть безбожных преследований, оставив русский великокняжеский престол и все свои наследственные владения, ушёл во Псков с княгиней и детьми своими и остался в Пскове».
Б) «Отец Александра, Ярослав, прислал ему на помощь младшего брата Андрея с большою дружиною. Да и у князя Александра было много храбрых воинов, как в древности у Давида-царя, сильных и стойких. ... Была же тогда суббота, и когда взошло солнце, сошлись противники. И была сеча жестокая, и стоял треск от ломающихся копий и звон от ударов мечей, и казалось, что двинулось замёрзшее озеро, и не было видно льда, ибо покрылось оно кровью. ... И возвратился князь Александр с победою славною, и было много пленных в войске его...».

ХАРАКТЕРИСТИКИ

1) Речь идет о событии, произошедшем в 1242 г.
2) Данный документ повествует о первом масштабном восстании против монголо-татарского ига.
3) После данного события русские князья перестали платить дань Золотой Орде.
4) Описываемые события относятся к XIV в.
5) Данное событие произошло в эпоху Владимира Мономаха.
6) Герой описываемых событий был канонизирован Русской православной церковью в лике чудотворцев при митрополите Макарии на Московском соборе 1547 г.

Запишите в ответ цифры, расположив их в порядке, соответствующем буквам:

Фрагмент А Фрагмент Б

Установите соответствие между фрагментами исторических источников и их краткими характеристиками: к каждому фрагменту, обозначенному буквой, подберите по две соответствующие характеристики, обозначенные цифрами.

ФРАГМЕНТЫ ИСТОЧНИКОВ

А) «Пришла весть русским, что пришли татары осматривать русские полки; тогда Даниил Романович и другие князья сели на коней и погнались, чтобы увидеть татарские войска. И, увидев их, послали к великому князю Мстиславу Романовичу, призывая: «Мстислав и другой Мстислав! Не стойте, пойдем против них». И вышли в поле, и встретились с татарами, и тут русские стрелки погнали их далеко в поле, рубя их; взяли они их скот и вернулись назад со стадами. И оттуда шли русские полки за ними восемь дней до реки Калки, и отправили со сторожевым отрядом Яруна с половцами, а сами разбили здесь лагерь. И здесь они встретились с татарскими дозорами, и убили татары Ивана Дмитриевича и с ним ещё двоих; а татары поворотили назад. Князь же Мстислав Мстиславич Галицкий повелел Даниилу Романовичу перейти реку Калку с полками, а сам отправился вслед за ними; переправившись, стали они станом».
Б) «Пошёл Игорь на греков. И послали болгары весть царю, что идут русские на Царьград: десять тысяч кораблей. И пришли, и подплыли, и стали воевать страну… А кого захватили – одних распинали, в других же, перед собой их ставя, стреляли… Много же и святых церквей предали огню, монастыри и села пожгли... Когда же пришли с востока воины – Панфир-деместик с сорока тысячами, Фока-патриций с македонянами, Фёдор-стратилат с фракийцами, с ними же и сановные бояре, то окружили русь. Русские же, посовещавшись, вышли против греков с оружием, и в жестоком сражении едва одолели греки. Русские же к вечеру возвратились к дружине своей и ночью, сев в ладьи, отплыли. Феофан же встретил их в ладьях с огнем и стал трубами пускать огонь на ладьи русских. И было видно страшное чудо. Русские же, увидев пламя, бросились в воду морскую, стремясь спастись, и так оставшиеся возвратились домой…»

ХАРАКТЕРИСТИКИ

1) В данном фрагменте летописи говорится о событиях XII в.
2) Князь, упоминаемый в данном фрагменте летописи, погиб в результате восстания одного из подчиненных ему народов.
3) События, о которых повествует летопись, происходили в период политической раздробленности Руси.
4) Современником событий, описываемых в летописи, был Чингисхан.
5) События, о которых повествует летопись, происходили до принятия Русью христианства.
6) Одним из участников событий, описываемых в летописи, был князь Александр Невский.

Фрагмент А Фрагмент Б

Установите соответствие между фрагментами исторических источников и их краткими характеристиками: к каждому фрагменту, обозначенному буквой, подберите по две соответствующие характеристики, обозначенные цифрами.

ФРАГМЕНТЫ ИСТОЧНИКОВ

А) «Пришёл Святополк с печенегами в силе грозной, и Ярослав собрал множество воинов и вышел против него на Альту. Ярослав стал на место, где убили Бориса, и, воздев руки к

небу, сказал: "Кровь брата моего вопиет к тебе, Владыка! Отомсти за кровь праведника сего, как отомстил ты за кровь Авеля, обрек Каина на стенание и трепет: так обреки и этого". Помолился и сказал: "Братья мои! Хоть и отошли вы телом отсюда, но молитвою помогите мне против врага сего – убийцы и гордеца". И когда сказал так, двинулись противники друг на друга, и покрыло поле Альтинское множество воинов… К вечеру же одолел Ярослав, а Святополк бежал. …Не мог он вытерпеть на одном месте, и пробежал он через Польскую землю, гонимый Божиим гневом, и прибежал в пустынное место между Польшей и Чехией, и там бедственно окончил жизнь свою. “Праведный суд постиг его, неправедного, и после смерти принял он муки окаянного…”
Ярослав же сел в Киеве, утёр пот с дружиною своею, показав победу и труд велик».
Б) «После смерти великого князя Всеволода Константин не захотел княжить во Владимире, но пожелал жить близ чудотворцев и церкви пречистой Богородицы в Ростове. Поэтому и захотел присоединить он Владимир к Ростову, а не Ростов к Владимиру, и замыслил, чтобы здесь был стол великокняжеский; но не допустила этого пречистая Богородица. И завещал великий князь Всеволод престол свой младшему после Константина сыну своему Юрию. Тогда Константин разгневался на брата из-за его княжества, а великий князь Юрий начал войну против Константина…
Так великий князь Юрий многократно приходил во владения брата, но возвращался посрамлённый.
…А затем на Ярослава Переяславского пришёл Мстислав Мстиславич, тесть его, и другие князья, и привлекли они на свою сторону Константина, а на стороне Ярослава, своего брата, выступил великий князь Юрий. И был у них бой на Липицах и на Юрьевой горе, и здесь все полки великого князя Юрия погибли… Победив князя Юрия, посадили на престол во Владимире Константина».

ХАРАКТЕРИСТИКИ

1) В данном фрагменте летописи говорится о событиях XIII в.
2) Князь, победивший в результате описанной в тексте борьбы, получил прозвище «Мудрый».
3) Современником событий, описываемых в фрагменте летописи, был Сергий Радонежский.
4) События, о которых повествует летопись, происходили в период политической раздробленности Руси.
5) Братья князя, победившего в результате описанной в тексте борьбы, стали первыми русскими святыми.
6) В том же веке, к которому относятся описываемые в тексте события, произошёл неудачный поход новгород-северского князя Игоря против половцев.

Фрагмент А Фрагмент Б

Установите соответствие между фрагментами исторических источников и их краткими характеристиками: к каждому фрагменту, обозначенному буквой, подберите по две соответствующие характеристики, обозначенные цифрами.

ФРАГМЕНТЫ ИСТОЧНИКОВ

А) «Божьим гневом, ради грехов наших, пленил землю Русскую царь Тахтамыш. Послал слуг своих во град, называемый Болгар, который на Волге, и повелел русских купцов грабить и суда их с товаром отнимать… И пошёл изгоном на [московского] великого князя… своим злохитрием… И то услышав князь Дмитрий Константинович Суздальский, послал к

царю Тахтамышу двух сыновей своих, Василия да Семёна… А князь Олег Рязанский [встретив] царя Тахтамыша ещё до прихода в землю его, бил ему челом, и был помощник и поспешник во вред христианам, и рассказал, …как без труда взять каменной град Москву и князя… захватить».
Б) «Когда же приблизились немцы, то проведали о них стражи. Князь же… приготовился к бою, и пошли они друг против друга, и покрылось озеро Чудское множеством тех и других воинов. Отец [князя], Ярослав, прислал ему на помощь младшего брата Андрея с большою дружиною. Да и у князя… было много храбрых воинов, как в древности у Давида-царя, сильных и стойких…
Была же тогда суббота, и когда взошло солнце, сошлись противники. И была сеча жестокая, и стоял треск от ломающихся копий и звон от ударов мечей, и казалось, что двинулось замёрзшее озеро, и не было видно льда, ибо покрылось оно кровью.
А это слышал я от очевидца, который поведал мне, что видел воинство Божие в воздухе, пришедшее на помощь [князю]. И так победил врагов помощью Божьей, и обратились они в бегство, [Князь] же рубил их, гоня, как по воздуху, и некуда было им скрыться».

ХАРАКТЕРИСТИКИ

1) Документ повествует о событиях XI века.
2) Московский великий князь, о котором говорится в тексте документа, – Дмитрий Донской.
3) Князь, о котором говорится в тексте документа, княжил в Новгороде.
4) Автор документа отмечает предательские действия некоторых русских князей.
5) Отец князя, о котором говорится в документе, одним из первых принял ярлык из рук золотоордынского хана.
6) Современником событий, описанных в тексте, был князь Владимир Мономах.

Фрагмент А Фрагмент Б

Установите соответствие между фрагментами исторических источников и их краткими характеристиками: к каждому фрагменту, обозначенному буквой, подберите по две соответствующие характеристики, обозначенные цифрами.

ФРАГМЕНТЫ ИСТОЧНИКОВ
А) «Пришли печенеги впервые на Русскую землю, а <...> был в Переяславце, и затворилась княгиня Ольга с внуками своими, Ярополком, Олегом и Владимиром в городе Киеве. И обступили печенеги город в силе великой, бесчисленное множество их около города, и нельзя было из города выйти, ни вести князю послать. Изнемогали люди от голода и жажды. Собрались люди на другой стороне Днепра в лодках. Они стояли на другой стороне, и нельзя было ни одному из них войти в Киев, ни из города выйти к ним. И закручинились люди в городе и сказали: "Нет ли кого, кто мог бы на ту сторону дойти и сказать им: если кто не придёт к нам утром на выручку, придётся нам сдаться печенегам"».
Б) «Пришёл Святополк в Киев, и вышли ему навстречу киевляне с поклоном и приняли его с радостью... В это время пошли половцы на Русскую землю... начали войну, и пришли во множестве, и осадили город Торческ. Святополк же начал собирать воев против половцев. И сказали ему мужи разумные: "Не покушайся против них, потому что мало имеешь воинов". Он же сказал: "Имею дружинников своих 700, которые могут стать против половцев". Другие же, неразумные, говорили: "Пойди, княже". Разумные же ему говорили: "Хотя бы ты собрал и 8000 воинов, недостало бы их. Наша земля оскудела от войн и насилий. Пошли к брату своему Владимиру (Мономаху), чтобы он тебе помог". Святополк же послушал их,

послал к Владимиру, чтобы помог ему. Владимир же собрал воинов своих и послал за Ростиславом, братом своим, в Переяславль, веля ему помогать Святополку».

ХАРАКТЕРИСТИКИ
1) В отрывке упоминается князь, в годы правления которого Русь приняла христианство.
2) Упоминаемый в отрывке князь ограничил ростовщические проценты и облегчил положение должников и закупов.
3) Описываемые в отрывке события происходят после крещения Руси.
4) В период описываемых событий Москва стала центром удельного княжества.
5) Современниками описываемых событий были КНЯЗЬЯ Борис и Глеб, ставшие первыми русскими святыми.
6) Набеги на Русь кочевников, упоминаемых в отрывке, прекратились в годы правления Ярослава Мудрого.

Запишите в ответ цифры, расположив их в порядке, соответствующем буквам:
А А Б Б

Установите соответствие между фрагментами исторических источников и их краткими характеристиками: к каждому фрагменту, обозначенному буквой, подберите по две соответствующие характеристики, обозначенные цифрами.

ФРАГМЕНТЫ ИСТОЧНИКОВ
А) «В тот год сказала дружина Игорю: "Отроки Свенельда изоделись оружием и одеждой, а мы наги. Пойдём, князь, с нами за данью, и себе добудешь, и нам". И послушал их Игорь — пошёл к древлянам за данью и прибавил к прежней дани новую, и творили насилие над ними мужи его. Взяв дань, пошёл он в свой город. Когда же шёл он назад, — поразмыслив, сказал своей дружине: "Идите с данью домой, а я возвращусь и похожу ещё". И отпустил дружину свою домой, а сам с малой частью дружины вернулся, желая большего богатства».
Б) «И стал воевать царь Батый окаянный Рязанскую землю и пошёл ко граду Рязани. И осадил град, и бились пять дней неотступно. Батыево войско переменялось, а горожане бессменно бились. И многих горожан убили, а иных ранили, а иные от великих трудов и ран изнемогли, а в шестой день спозаранку пошли враги на город - одни с огнями, другие со стенобитными орудиями, а третьи с бесчисленными лестницами — и взяли град Рязань месяца декабря
в 21 день».

ХАРАКТЕРИСТИКИ
1) События, описанные в отрывке, произошли в X в.
2) Исторический деятель, упомянутый в отрывке, был сыном Чингисхана
3) События, описанные в отрывке, произошли в XI в.
4) Исторический деятель, упомянутый в отрывке, был убит во время восстания
5) Современником событий, описываемых в отрывке, был владимирский князь Юрии Всеволодович.
6) События, описанные в отрывке, произошли в XIII в.

Запишите в ответ цифры, расположив их в порядке, соответствующем буквам:

А А Б Б

Какие три из перечисленных черт характеризовали зависимость русских земель от Орды? Соответствующие цифры запишите в ответ.

1) перепись населения
2) создание Земских соборов
3) система баскачества
4) система местничества
5) получение ярлыка на великое княжение
6) отмена кормлений

Какие три из перечисленных понятий характеризуют систему управления Новгородской республики? Запишите в таблицу цифры, под которыми они указаны.

1) совет всея земли	2) посадник	3) вече
4) земский собор	5) тысяцкий	6) дворецкий

Какие княжества боролись за лидерство в политическом объединение Руси в XIII—XIV в.

1) Галицко-Волынское
2) Нижегородское
3) Тверское
4) Московское
5) Киевское
6) Черниговское

Что из перечисленного характеризует Владимиро-Суздальское княжество в XII-III вв.? Выберите три ответа и запишите в таблицу цифры, под которыми они указаны.

1) слабые вечевые традиции
2) независимость боярства, стремящегося к ограничению княжеской власти
3) посадник — центральная фигура управления
4) верховная собственность великого князя на землю
5) непрочные позиции боярской знати
6) призвание князя на престол по договору

Прочтите отрывок из летописи.

«…Был совет всех князей в городе Киеве, и решили на совете так: «Лучше нам встретить их на чужой земле, чем на своей». На этом совете были Мстислав Романович Киевский, Мстислав Козельский и Черниговский и Мстислав Мстиславич Галицкий — они были старейшими князьями Русской земли. Великого же князя Юрия Суздальского на том совете не было. А младшие князья были Даниил Романович, Михаил Всеволодич, Всеволод Мстиславич Киевский и иных князей много. <…> Оттуда они шли восемь дней до реки Калки. Встретили их татарские сторожевые отряды. Когда сразились сторожевые страды, был убит Иван Дмитриевич и еще двое с ним. Татары отъехали; около самой реки Калки встретились татары с русскими и половецкими полками. Мстислав Мстиславич повелел сначала перейти реку Калку Даниилу с полком и другим полкам с ними, а сам после них переехал; сам он

ехал в сторожевом отряде. Когда он увидел татарские полки, то приехал сказать: "Вооружайтесь!" Мстислав Романович и Другой Мстислав сидели и ничего не знали: Мстислав им не сказал о происходящем из-за зависти, потому что между ними была большая вражда… Сошлись полки вместе. Даниил выехал вперед, и Семен Олюевич и Василько Гаврилович ударили в полки татарские, и Василько был ранен. А сам Даниил, будучи ранен в грудь, по молодости и храбрости не почувствовал ран на теле своем. Ему было восемнадцать лет, и он был силен <…> За грехи наши побеждены были русские полки…»

Используя отрывок, выберите в приведённом списке три верных суждения. Запишите в ответ цифры, под которыми они указаны.

1) участие в битве русских дружин объясняется просьбой половецких князей поддержать их в борьбе с агрессией монголо-татар
2) причиной поражения русских воинов стал переход на сторону противника половецкого войска
3) битва на реке Калке состоялась в 1223 г.
4) после битвы монголо-татарское войско двинулось на Рязань и после кратковременной осады взяло её штурмом
5) описанная в летописи битва закончилась победой монголо-татарского войска
6) описанные в летописи события относятся к последнему десятилетию существования Древнерусского государства как единого целого

Прочтите отрывок из «Повести о разорении Рязани Батыем»

«В год 6745 (от Сотворения Мира)….<…> Пришел на Русскую землю безбожный царь Батый со множеством воинов татарских и стал на реке на Воронеже близ земли Рязанской. И прислал послов непутевых на Рязань к великому князю Юрию Ингваревичу (Игоревичу) Рязанскому, требуя у него десятой доли во всем: во князьях, и во всяких людях, и в остальном. И услышал великий князь Юрий Ингваревич Рязанский о нашествии безбожного царя Батыя, и тотчас послал в город Владимир к благоверному великому князю Георгию Всеволодовичу Владимирскому, прося у него помощи против безбожного царя Батыя или чтобы сам на него пошел. Князь великий Георгий Всеволодович Владимирский и сам не пошел, и помощи не послал, задумав один сразиться с Батыем. И услышал великий князь Юрий Ингваревич Рязанский, что нет ему помощи от великого князя Георгия Всеволодовича Владимирского, и тотчас послал за братьями своими: за князем Давидом Ингваревичем Муромским, и за князем Глебом Ингваревичем Коломенским, и за князем Олегом Красным, и за Всеволодом Пронским, и за другими князьями. И стали совет держать, как утолить нечестивца дарами. И послал сына своего князя Федора Юрьевича Рязанского к безбожному царю Батыю с дарами и мольбами великими, чтобы не ходил войной на Рязанскую землю. И пришел князь Федор Юрьевич на реку на Воронеж к царю Батыю, и принес ему дары, и молил царя, чтоб не воевал Рязанской земли. Безбожный же, лживый и немилосердный царь Батый дары принял и во лжи своей притворно обещал не ходить войной на Рязанскую землю. Но хвалился-грозился повоевать всю Русскую землю. И стал просить у князей рязанских дочерей и сестер к себе на ложе. И некто из вельмож рязанских по зависти донес безбожному царю Батыю, что есть у князя Федора Юрьевича Рязанского княгиня из царского рода и что всех прекраснее она красотой телесною. Царь Батый лукав был и немилостив в неверии своем, распалился в похоти своей и сказал князю Федору Юрьевичу: «Дай мне, княже, изведать красоту жены твоей». Благоверный же князь Федор Юрьевич Рязанский посмеялся и ответил царю: «Не годится нам, христианам, водить к тебе, нечестивому царю, жен своих на блуд. Когда нас одолеешь, тогда и женами нашими владеть будешь». Безбожный царь Батый разъярился и оскорбился и тотчас повелел убить благоверного князя

Федора Юрьевича, а тело его велся бросить на растерзание зверям и птицам, и других князей и воинов лучших поубивал…».

Используя отрывок, выберите в приведённом списке три верных суждения. Запишите в ответ цифры, под которыми они указаны.

1) вторжение на Русь войск Батыя началось зимой 1237 г.
2) вскоре после гибели Рязани удару войск Батыя подверглись города Владимиро-Суздальского княжества
3) после разгрома Рязани на войско монголо-татар было совершено нападение дружины рязанского боярина Евпатия Коловрата
4) двигаясь через Черниговское княжество, отряд монголо-татар с ходу захватил и разграбил Козельск
5) автор повести не противопоставляет возвышенный христианский дух рязанского князя «плотским» помыслам завоевателя-мусульманина
6) защитники Новгорода сумели выдержать штурм города войска Батыя

Прочтите отрывок из житийной литературы.

«… Сей князь Александр родился от отца милосердного и человеколюбивого, и более всего — кроткого, князя великого Ярослава и от матери Феодосии… <…> И красив он был, как никто другой, и голос его — как труба в народе, лицо его — как лицо Иосифа, которого египетский царь поставил вторым царем в Египте, сила же его была частью от силы Самсона, и дал ему бог премудрость Соломона, храбрость же его — как у царя римского Веспасиана, который покорил всю землю Иудейскую…<…> Услышав о такой доблести князя Александра, король страны Римской из северной земли подумал про себя: "Пойду и завоюю землю Александрову". И собрал силу великую, и наполнил многие корабли полками своими, двинулся с огромным войском, пыхая духом ратным. И пришел в Неву, опьяненный безумием, и отправил послов своих, возгордившись, в Новгород к князю Александру, говоря: "Если можешь, защищайся, ибо я уже здесь и разоряю землю твою". Александр же, услышав такие слова, разгорелся сердцем, и вошел в церковь святой Софии, и, упав на колени пред алтарем, начал молиться со слезами: "Боже славный, праведный, боже великий, сильный, боже праведный, сотворивший небо и землю и установивший пределы народам, ты повелел жить, не преступая чужих границ". И, припомнив слова пророка, сказал: "Суди, господи, обидящих меня и огради от борющихся со мною, возьми оружие и щит и встань на помощь мне". И, окончив молитву, он встал, поклонился архиепископу. Архиепископ же был тогда Спиридон, он благословил его и отпустил. Князь же, выйдя из церкви, осушил слезы и начал ободрять дружину свою, говоря: «Не в силе бог, но в правде. Вспомним Песнотворца, который сказал: "Одни с оружием, а другие на конях, мы же имя господа бога нашего призовем; они, поверженные, пали, мы же устояли и стоим прямо"». Сказав это, пошел на врагов с малою дружиною, не дожидаясь своего большого войска, но уповая на святую троицу. …<…> После того Александр поспешил напасть на врагов в шестом часу дня, и была сеча великая с римлянами, и перебил их князь бесчисленное множество, а на лице самого короля оставил след острого копья своего. Проявили себя здесь шесть храбрых, как он, мужей из полка Александра. Первый — по имени Гаврило Олексич. Он напал на шнек и, увидев королевича, влекомого под руки, въехал до самого корабля по сходням, по которым бежали с королевичем; преследуемые им схватили Гаврилу Олексича и сбросили его со сходен вместе с конем. Но по божьей милости он вышел из воды невредим, и снова напал на них, и бился с самим воеводою посреди их войска. Второй, по имени Сбыслав Якунович, новгородец. Этот много раз нападал на войско их и бился одним топором, не имея страха в душе своей; и пали многие от руки его, и дивились силе и храбрости его.

Третий — Яков, родом полочанин, был ловчим у князя. Этот напал на полк с мечом, и похвалил его князь. Четвертый — новгородец, по имени Меша. Этот пеший с дружиною своею напал на корабли и потопил три корабля. Пятый — из младшей дружины, по имени Сава. Этот ворвался в большой королевский златоверхий шатер и подсек столб шатерный. Полки Александровы, видевши падение шатра, возрадовались…<…> На второй же год после возвращения с победой князя Александра вновь пришли из Западной страны и построили город на земле Александровой. Князь же Александр вскоре пошел и разрушил город их до основания, а их самих — одних повесил, других с собою увел, а иных, помиловав, отпустил, ибо был безмерно милостив. После победы Александровой, когда победил он короля, на третий год, в зимнее время, пошел он с великой силой на землю немецкую, чтобы не хвастались, говоря: "Покорим себе славянский народ". А был ими уже взят город Псков и наместники немецкие посажены. Он же вскоре изгнал их из Пскова и немцев перебил, а иных связал и город освободил от безбожных немцев, а землю их повоевал и пожег и пленных взял бесчисленное множество, а других перебил. Немцы же, дерзкие, соединились и сказали: "Пойдем, И победим Александра, и захватим его". Когда же приблизились немцы, то — проведали о них стражи. Князь же Александр приготовился к бою, и пошли они друг против друга, и покрылось озеро Чудское множеством тех и других воинов. Отец Александра, Ярослав, прислал ему на помощь младшего брата Андрея с большою дружиною. Да и у князя Александра было много храбрых воинов, как в древности у Давида-царя, сильных и стойких. Так и мужи Александра исполнились духа ратного, ведь были сердца их как сердца львов, и воскликнули: "О княже наш славный! Ныне пришло нам время положить головы свои за тебя". Князь же Александр воздел руки к небу и сказал: "Суди меня, боже, рассуди распрю мою с народом неправедным и помоги мне, господи, как в древности помог Моисею одолеть Амалика и прадеду нашему Ярославу окаянного Святополка". Была же тогда суббота, и когда взошло солнце, сошлись противники. И была сеча жестокая, и стоял треск от ломающихся копий и звон от ударов мечей, и казалось, что двинулось замерзшее озеро, и не было видно льда, ибо покрылось оно кровью….»

Используя текст, выберите в приведённом списке три верных суждения. Запишите в ответ цифры, под которыми они указаны.

1) события, описанные в тексте жития, произошли в XII в.
2) город, который немецкие рыцари построили на захваченной «земле Александровой», назывался Копорье
3) за заслуги перед Новгородом бояре провозгласили князя Александра Ярославича Новгородским князем «на все времена»
4) в сражении на реке Неве войско князя Александра Ярославича сразилось с войском датчан
5) одним из описанных в житии ратных деяний князя Александра Ярославича была победа над немцами на льду Чудского озера
6) в сражении против немецких рыцарей принимала участие дружина из Владимиро-Суздальского княжества

Прочтите отрывок из «Повести о Шевкале»

«В год 6834 (от Сотворения мира)…<…> Александру Михайловичу было дано княжение, и он пришел из Орды и сел на великокняжеский престол. Потом, немного дней спустя, из-за умножения наших грехов, когда бог позволил дьяволу вложить в сердце безбожных татар злую мысль, сказали они своему беззаконному царю: "Если не погубишь князя Александра и всех князей русских, то не получишь власти над ними". Тогда беззаконный и проклятый зачинатель всего зла Шевкал, разоритель христианства, отверз свои скверные уста и начал

говорить, наученный диаволом: "Государь царь, если ты мне велишь, я пойду на Русь, разорю христианство, убью их князя, а княгиню и детей приведу к тебе". И царь велел ему так сотворить. Беззаконный же Шевкал, разоритель христианства, пошел на Русь со многими татарами, и пришел в Тверь, и выгнал великого князя с его двора, а сам поселился на великокняжеском дворе, исполненный гордости и ярости. И сотворил великое гонение на христиан — насилие, грабеж, избиение и поругание. Люди же городские, постоянно оскорбляемые нехристями, много раз жаловались великому князю, прося оборонить их. Он же, видя озлобление своих людей и не имея возможности их оборонить, велел им терпеть. Но тверичи не терпели, а ждали удобного времени.
И случилось так, что 15 августа, ранним утром, когда собирается торг, некий диаконтверянин, — прозвище ему Дудко, — повел кобылицу, молодую и очень тучную, напоить водой к Волге. Татары же, увидев ее, отняли. Диакон же очень огорчился и стал вопить: "Люди тверские, не выдавайте!" И началась между ними драка. Татары же, надеясь на свою власть, пустили в ход мечи, и тотчас сбежались люди, и началось возмущение. И ударили во все колокола, стали вечем, и восстал город, и сразу же собрался весь народ. И возник мятеж, и кликнули тверичи и стали избивать татар, где кого поймают, пока не убили самого Шевкала. Убивали же всех подряд, не оставили и вестника, кроме пастухов, пасших на поле стада коней. Те взяли лучших жеребцов и быстро бежали в Москву, а оттуда в Орду, и там возвестили о кончине Шевкала. (...) Убит же был Шевкал в 6835 году. И, услышав об этом, беззаконный царь зимой послал рать на Русскую землю — пять темников, а воевода у них Федорчук, и убили они множество людей, а иных взяли в плен; а Тверь и все тверские города предали огню. Великий же князь Александр, чтобы не терпеть безбожных преследований, оставив русский великокняжеский престол и все свои наследственные владения, ушел во Псков с княгиней и детьми своими и остался в Пскове»

Используя отрывок, выберите в приведённом списке три верных суждения. Запишите в ответ цифры, под которыми они указаны.

1) после подавления восстания в Твери тверские князья добровольно отказались от прав на великое Владимирское княжение в пользу Москвы
2) события, описанные в повести, произошли в первой половине XIV в.
3) следствием восстания в Твери стала передача ханом Золотой Орды ярлыка на великое Владимирское княжение тверскому князю
4) в карательном походе монголо-татар против Твери принимали участие войска Ивана Калиты
5) темник в войске ордынцев командовали отрядом в тысячу человек
6) Чол-хан (Шевкал, Щелкан) был баскаком ордынского хана Узбека на Руси

Прочтите отрывок из произведения современного автора

«В первые же годы своего правления князь добился того, что в Москву из Владимира была переведена митрополичья кафедра. Он сумел приобрести расположение митрополита Петра, так что этот святитель жил в Москве больше, чем в других местах. Пётр умер и был погребен в ней. Гроб святого мужа был для Москвы так же драгоценен, как и пребывание живого святителя: выбор Петра казался внушением Божьим. Другие князья хорошо видели важные последствия этого явления и сердились; но поправить дело в свою пользу уже не могли. Во все продолжение своего правления князь ловко пользовался обстоятельствами, чтобы, с одной стороны, увеличить свои владения, с другой — оказывать влияние на князей в прочих русских землях. В этом помогала ему более всего начавшаяся вражда между Тверью и Ордой. Княживший в Твери князь Александр Михайлович принял участие в народном восстании, в котором тверичи убили Чол-хана и перебили всю его свиту. Узбек очень рассердился, узнав об участи Чол-хана, и, по некоторым известиям, послал за московским

князем, но, по другим известиям, московский князь поехал в Орду сам, торопясь воспользоваться тверским происшествием. Узбек дал ему ярлык на великое княжение и 50 000 войска. Присоединив к себе еще князя суздальского, московский князь пошел в Тверскую волость; татары пожгли города и села, людей повели в плен и, по выражению летописца, положили пусту всю землю Русскую. Спаслись лишь Москва да Новгород, который дал татарским воеводам 2000 гривен серебра и множество даров. Александр бежал в Новгород, потом в Псков, но и оттуда его вынудили уехать в Литву. Обстоятельства продолжали благоприятствовать Москве…..»

Используя отрывок, выберите в приведённом списке три верных суждения. Запишите в ответ цифры, под которыми они указаны.

1) князя, о котором говорится в отрывке произведения современного автора, звали Дмитрий Донской
2) события, связанные с восстанием в Твери, произошли в XIV в.
3) перемещение кафедры митрополита из Владимира в Москву сделало её духовной столицей Руси
4) карательного поход, в котором участвовали московские войска, серьёзно ослабил позиции тверских князей в качестве претендентов на Владимирский престол
5) Чол-хан был наследником ханского престола в Золотой Орде
6) из Литвы тверской князь Александр Михайлович возглавил поход против своего конкурента — московского князя

Прочтите отрывок из произведения средневекового автора

«…Князь же великий, распределив полки, повелел им через Оку-реку переправляться и при казал каждому полку и воеводам: "Если же кто пойдет по Рязанской земле, — не коснитесь ни единого волоса!" И, взяв благословение от архиепископа коломенского, князь великий перешел реку Оку со всеми силами и отправил в поле третью заставу, лучших своих витязей, чтобы они сошлись со сторожей татарской в степи….<…> Князь же Олег Рязанский услышал, что князь великий соединился со многими силами и следует навстречу безбожному царю Мамаю да к тому же вооружен твердо своею верою, которую на бога-вседержителя, всевышнего творца, со всею надеждой возлагает. И начал остерегаться Олег Рязанский и с места на место переходить с единомышленниками своими, так говоря: "Вот если бы нам можно было послать весть об этой напасти к многоразумному Ольгерду Литовскому, узнать, что он об этом думает, да нельзя: перекрыли нам путь. Думал я по старинке, что не следует русским князьям на восточного царя подниматься, а теперь как все это понять? И откуда князю помощь такая пришла<…>, что смог против нас трех подняться?" Князь же Ольгерд Литовский, в согласии с прежним замыслом, собрал литовцев много и варягов, и жмуди и пошел на помощь Мамаю. И пришел к городу Одоеву, но, прослышав, что князь великий собрал великое множество воинов, — всю русь и словен, да пошел к Дону против царя Мамая, — прослышав также, что Олег испугался, — и стал тут с тех пор недвижимо, и понял тщетность своих помыслов, о союзе своем с Олегом Рязанским теперь сожалел, метался и негодовал, говоря: "Если человеку не хватает своего ума, то напрасно чужого ума ищет: никогда ведь не бывало, чтобы Литву поучала Рязань! Ныне же свел меня с ума Олег, а сам и пуще погиб ".<…>
И князь великий приказал войску всему через Дон переправляться. Тогда начал князь великий Дмитрий Иванович с братом своим, князем Владимиром Андреевичем, и с литовскими князьями Андреем и Дмитрием Ольгердовичами вплоть до шестого часа полки расставлять. Некий воевода пришел с литовскими князьями, именем Дмитрий Боброк, родом из Волынской земли, который знатным был полководцем, хорошо он расставил полки, по достоинству, как и где кому подобает стоять. <…> Князь же великий, увидев свои полки достойно

устроенными, сошел с коня своего и пал на колени свои прямо перед большого полка черным знаменем, на котором вышит образ владыки господа нашего Иисуса Христа, и из глубины души стал взывать громогласно: "О владыка-вседержитель! Взгляни проницательным оком на этих людей, что твоею десницею созданы и твоею кровью искуплены от служения дьяволу».

Используя отрывок, выберите в приведённом списке три верных суждения. Запишите в ответ цифры, под которыми они указаны.

1) князя Дмитрия Ивановича благословил на битву с ордынцами митрополит Киприан
2) события, описываемые в отрывке, произошли во второй половине XIV в.
3) властитель Орды Мамай был убит во время битвы
4) рязанскому князю Олегу и литовскому князю Ольгерду не удалось принять участие в битве на стороне ордынцев
5) победа князя Дмитрия Ивановича над Мамаем окончательно избавила русские земли от необходимости выплачивать Орде дань
6) событие, описываемое в источнике, окончательно утвердило Москву в качестве политического центра объединяющихся русских земель

Рассмотрите схему и выполните задание

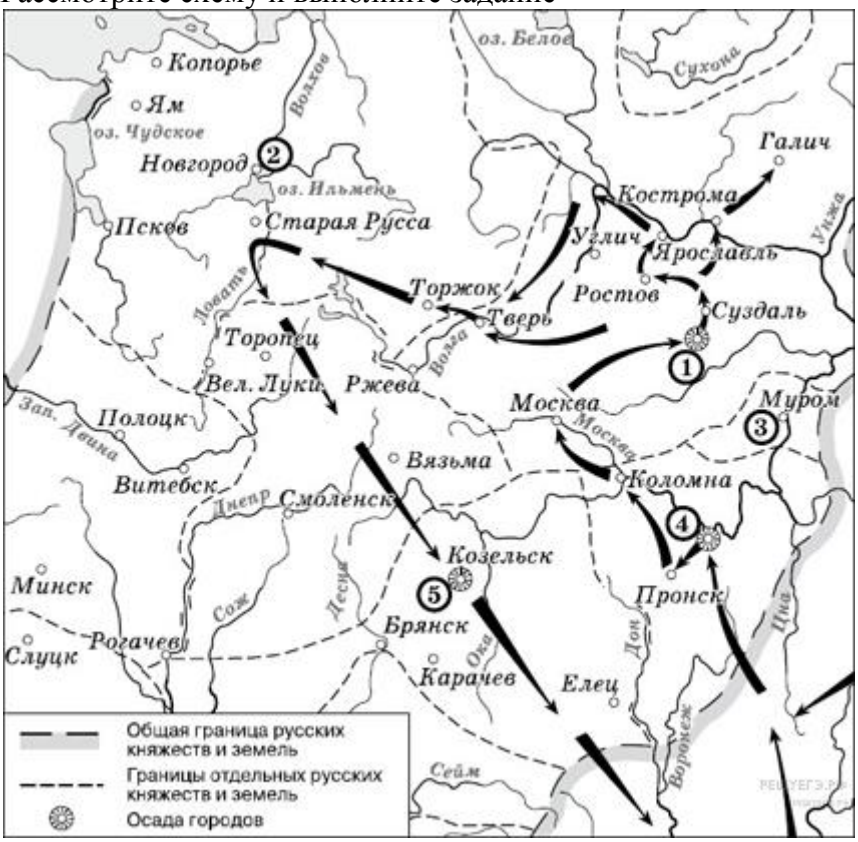

Напишите имя полководца, осуществившего поход, обозначенный на схеме стрелками.

\

Рассмотрите схему и выполните задание

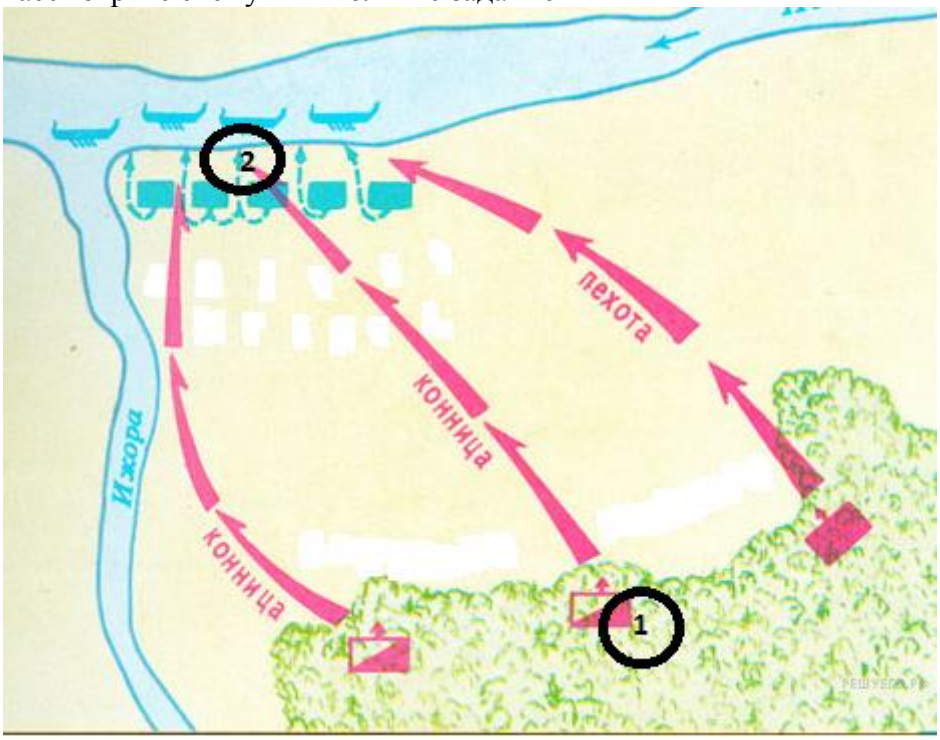

Напишите название битвы, представленной на схеме.

Рассмотрите схему и выполните задание

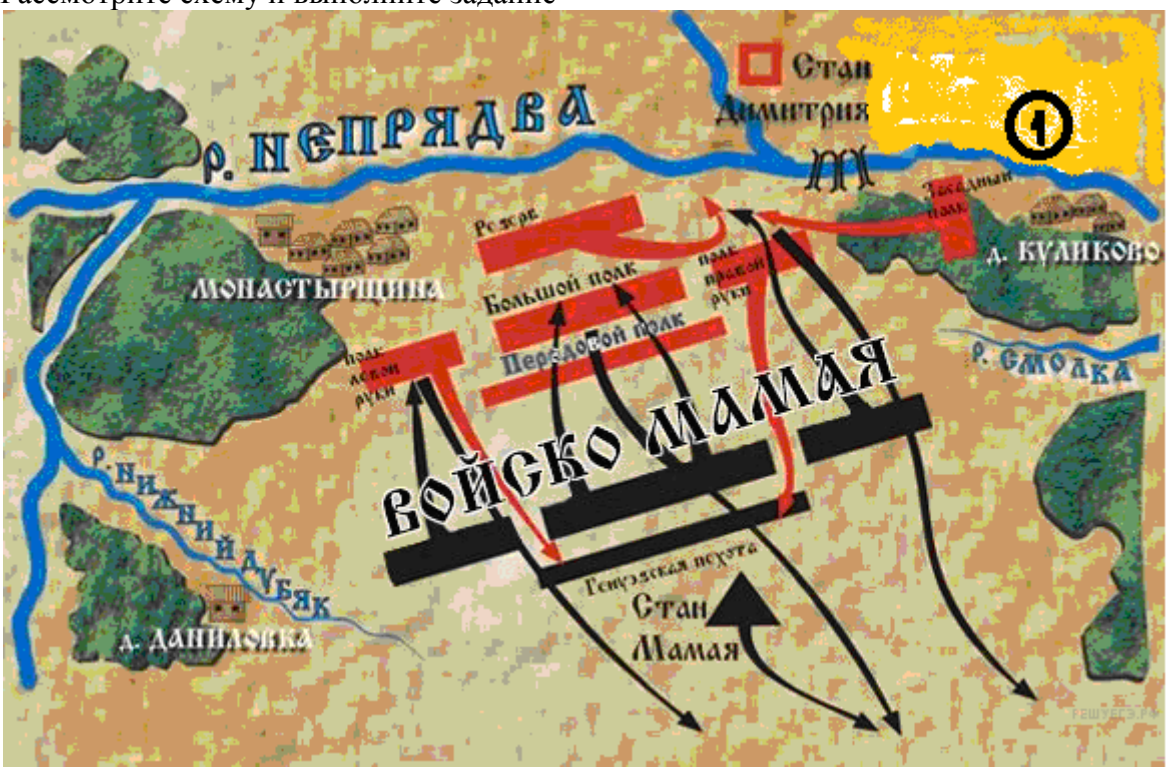

Напишите название битвы, представленной на схеме.

Рассмотрите схему и выполните задания

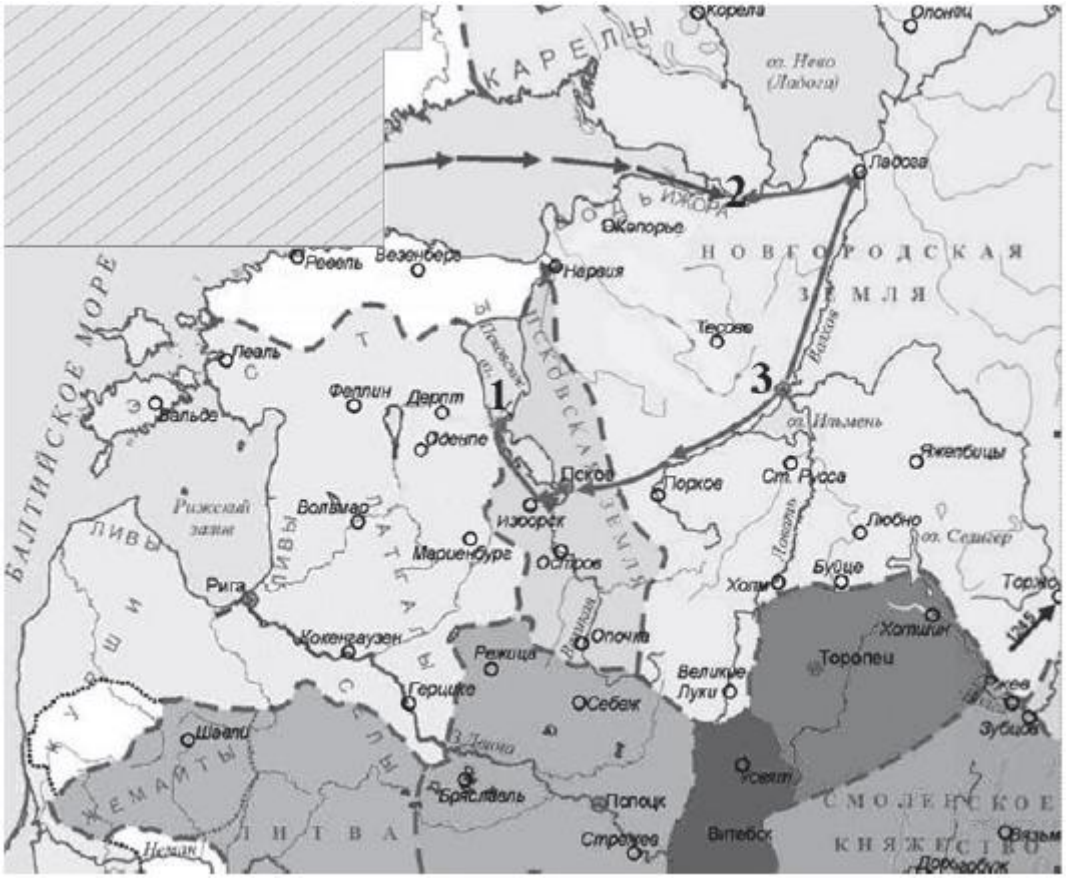

Напишите имя русского полководца, участвовавшего в походах, обозначенных карте.

Рассмотрите схему и выполните задания

Напишите термин, обозначающий название периода отечественной истории, события которого изображены на карте.

Рассмотрите изображение и выполните задание

Какие суждения о данном памятнике архитектуры являются верными? Выберите два суждения из пяти предложенных. Запишите в таблицу цифры, под которыми они указаны.

1) Церковь была построена в X в.
2) Это первая каменная постройка на Руси.
3) Церковь построена в стиле нарышкинского барокко.
4) Церковь относится к шедеврам владимиро-суздальской архитектуры.
5) Строительство этого храма относится к правлению Андрея Боголюбского.

Рассмотрите изображение и выполните задание

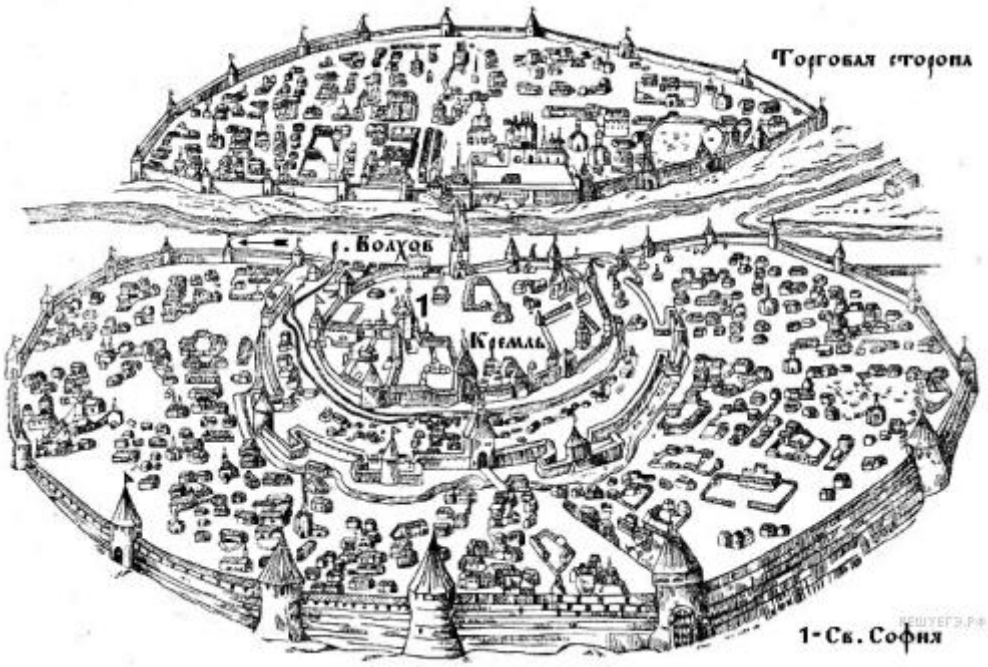

Какие суждения о городе, старинный план которого Вы видите, являются верными? Выберите два суждения из пяти предложенных. Запишите в таблицу цифры, под которыми они указаны.

1) В отличие от других русских земель в этом городе редко созывалось народное вече.
2) В период политической раздробленности русских земель в этом городе установилась сильная княжеская власть.
3) С 1113 по 1125 г. в городе правил князь Владимир Мономах.
4) Через этот город в древности проходил торговый путь «из варяг в греки».
5) Город, изображённый на плане, был присоединён к Московскому государству в 1478 г.

Рассмотрите изображение и выполните задание.

Какие суждения о данном изображении являются верными? Выберите два суждения из пяти предложенных. Запишите в таблицу цифры, под которыми они указаны.

1) Данная монета выпущена в период существования СССР.
2) Событие, которому посвящена медаль, связано с именем князя Владимира Святого.
3) На данном изображении представлен символ царской власти в России.
4) Одним из авторов памятника, изображённого на монете, является А. М. Опекушин.
5) Памятник, изображённый на монете, находится в Новгороде.

Какие суждения о данном изображении являются верными? Выберите два суждения из пяти предложенных. Запишите в таблицу цифры, под которыми они указаны.

1) Битва, событие которой изображено на картине, закончилась победой русского войска.
2) В поединке, изображённом на картине, русский воин остался жив.
3) В битве, изображённой на данной картине, русское войско сражалось с немецкими рыцарями.
4) События, изображённые на картине, произошли в XIII в.
5) Русский воин изображён на картине слева от зрителя.

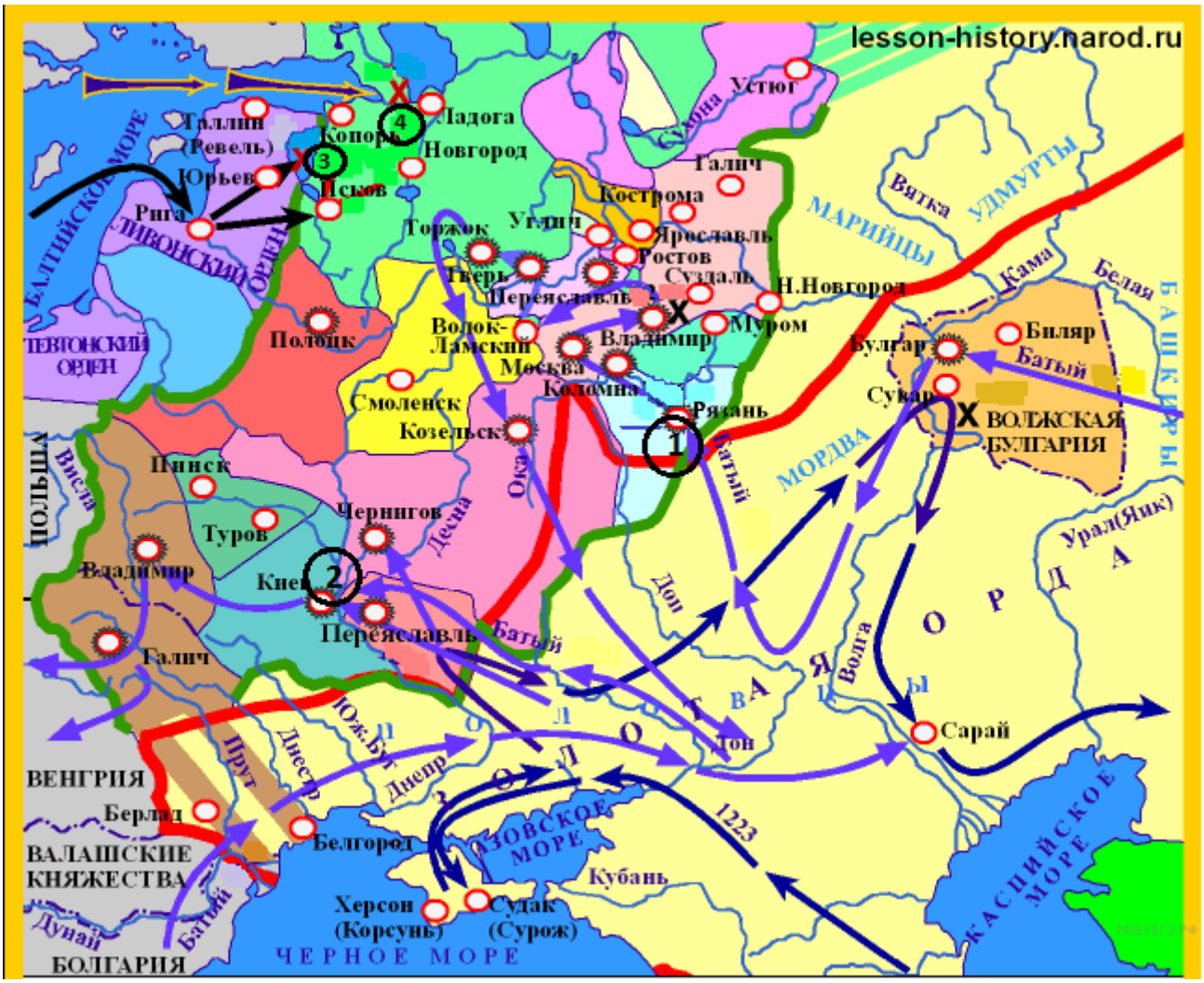

Напишите имя русского полководца XIII в., одержавшего победы над неприятелем в сражениях, отмеченных на карте цифрами «3» и «4».

Рассмотрите изображение и выполните задание

Какие из нижеприведённых памятников архитектуры были построены в том же веке, что и изображённый выше? В ответе запишите две цифры, под которыми они указаны.

1)

3)

2)

4)

Рассмотрите изображение и выполните задание.

Укажите изображения памятников архитектуры, созданных наиболее близко по времени к событию, в честь юбилея которого выпущена монета. В ответе запишите две цифры, под которыми они указаны.